Όνομα : _____

8.1 Πίνακες του 10

Συμπλήρωσε τον πίνακα.

	+	1	2	3	4	5
		I	II	III	IIII	~~IIII~~
I	1					
II	2					
III	3					
IIII	4					
~~IIII~~	5					

Πρόσθεσε τους αριθμούς του πίνακα, οριζόντια και κάθετα. Τι παρατηρείς;

4	3	2	1	10
3	1	4	2	___
2	4	1	3	___
1	2	3	4	___
10	___	___	___	

Συμπλήρωσε τους αριθμούς στις σελίδες και στους πίνακες.

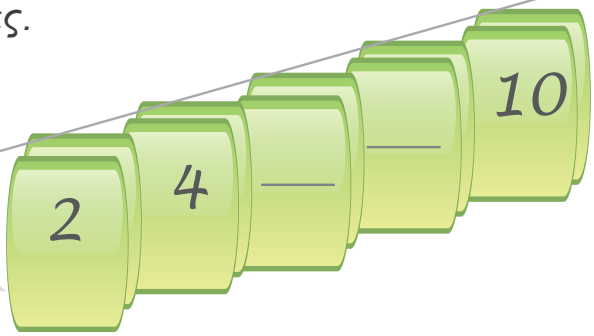

+2	
0	
2	
4	
6	
8	

-2	
10	
8	
6	
4	
2	

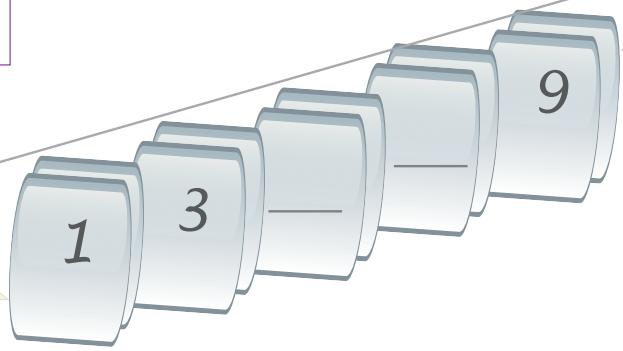

+2	
1	
3	
5	
7	

-2	
9	
7	
5	
3	

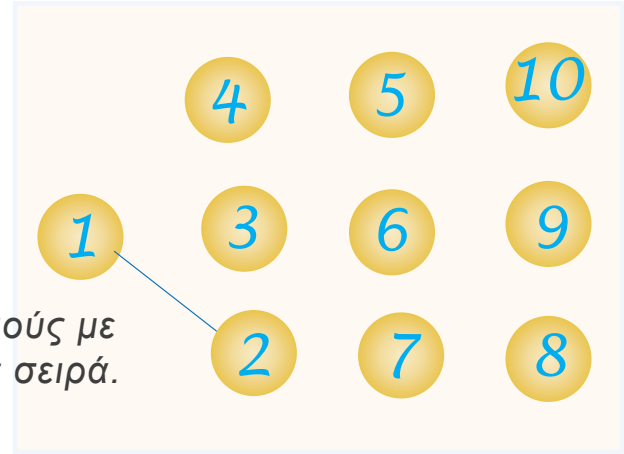

Σύνδεσε τους αριθμούς με την αριθμητική τους σειρά.